علوی

بنام خداوند جان و خرد

پایه:

نام و نام خانوادگی | تاریخ | موضوع:

هدف:

جدول را کامل کن و عدد هر شکل را نشان بده.



ده تایی	یکی
.....	



ده تایی	یکی
.....	

ده تا ده تا بنویس.

۱۰ - ۲۰ - ..... - ..... - ..... - ..... - ..... - ..... - .....

قبل و بعد از هر عدد را بنویس.

	۱۶	
	۱۰	

	۱۹	
	۱۳	

	۵	
	۱۷	

- ده تا قبل و ده تا بعد از هر عدد را بنویس.

	۳۰	
	۷۰	

	۸۰	
	۶۰	

	۲۰	
	۵۰	

به نام خدا

نام و نام خانواد گی ریاضی

حاصل جمع زیر را با چوب خط پیدا کن و با عدد نشان بده.

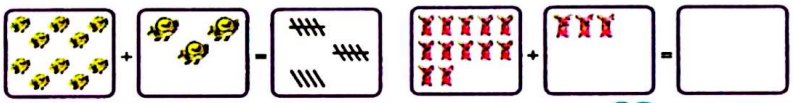

۱۱ + ۳ - ۱۴

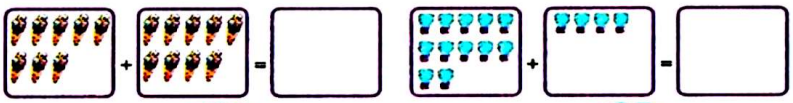

Scanned with CamScanner