علـــوی

بنام خداوند جان و خرد

پایه:

نام و نام خانوادگی | تاریخ | موضوع:

هدف:

۱- در زیر هر شکل نام آن، تعداد ضلع‌ها و گوشه‌ها را بنویس.



نام شکل: .....
تعداد ضلع: .....
تعداد گوشه: .....



نام شکل: .....
تعداد ضلع: .....
تعداد گوشه: .....



نام شکل: .....
تعداد ضلع: .....
تعداد گوشه: .....



نام شکل: .....
تعداد ضلع: .....
تعداد گوشه: .....

۲- دو شکل زیر چه تفاوت و شباهت‌هایی با هم دارند؟

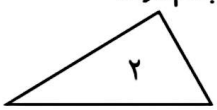



تفاوت: .....

.....

شباهت: .....

.....

۳- مانند نمونه و با شابلون ۲ شکل بالای خط بکش. در پایین همان شکل‌ها را طوری بکش که اگر کاغذ را از روی خط تا کنیم، شکل‌های دو طرف روی هم بیفتد.





T201030۰۱

