علـــوی

بنام خداوند جان و خرد

پایه: .....

نام و نام خانوادگی | تاریخ | موضوع: .....

هدف: .....

۱- با انجام دسته‌بندی‌های متفاوت برای شکل زیر، کسرهای مساوی بنویسید.





— = — = —

۲- کسرهای مساوی را هم‌رنگ کنید و جاهای خالی را پر کنید.



— = — — = —

— = — — = —

۳- حاصل عبارت داده شده را پیدا کنید.

$\left(\frac{1}{2}+\frac{4}{20}\right)-\left(\frac{5}{20}+\frac{2}{10}\right)=$

۴- در جای خالی، عدد مناسب قرار دهید تا کسر مساوی ساخته شود.



$\frac{2}{3}=\frac{\square}{9}$ $\frac{14}{18}=\frac{7}{\square}$ $\frac{6}{\square}=\frac{48}{64}$

۵- مقایسه کنید و علامت $<$ $=$ $>$ بگذارید.

$\frac{2}{5}\bigcirc\frac{3}{15}$ $\frac{2}{8}\bigcirc\frac{3}{24}$ $\frac{6}{9}\bigcirc\frac{6}{10}$ $\frac{2}{10}\bigcirc\frac{4}{5}$

بازخورد:



علـــوی

بنام خداوند جان و خرد

پایه: .....

نام و نام خانوادگی | تاریخ | موضوع: .....

۱- جمع یا تفریق مربوط به شکل و محور را بنویسید.



.....

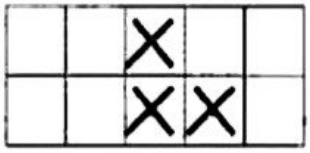

.....

۲- حاصل جمع و تفریق‌های زیر را پیدا کنید.

$\frac{۲}{۱۰}+\frac{۲}{۱۰}+\frac{۲}{۱۰}=$ .....

$\frac{۱۳}{۲۰}-\frac{۴}{۲۰}=$ .....



۳- حسین آقا $\frac{۵}{۱۰}$ از مزرعه‌اش را خیار و $\frac{۴}{۱۰}$ آن را گوجه فرنگی کاشته است. حسین آقا در چه کسری از مزرعه‌اش خیار و گوجه کاشته است؟



۴- نیلوفر $\frac{۲}{۸}$ از تکالیفش را روز چهارشنبه و $\frac{۵}{۸}$ از آن‌ها را روز پنج‌شنبه انجام داد.

الف) نیلوفر چه کسری از تکالیفش را انجام داده است؟

ب) چه کسری از تکالیف نیلوفر باقی مانده است؟



۵- در جاهای خالی، کسر مناسب بنویسید.

$\frac{۹}{۱۱}+$ ــــ $=۱$

$\frac{۷}{۱۲}+\frac{۵}{۱۲}=$ ــــ

$\frac{۶}{۸}-$ ــــ $=۰$

$۱-\frac{۷}{۱۳}=$



بازخورد:

