

CamScanner

۱ــ به شکل‌های زیر و عددی که هرکدام نشان می‌دهد، توجه کنید.
حالا با رسم شکل حاصل جمع و تفریق‌ها را به‌دست آورید.


۱۰۰۰


۱۰۰

۱۰ ۱

۲۳۱۴+۱۲۵۲= ۳۵۶۶

۴۳۷۵ -۲۱۵۳=





۲ــ مهدی، حمید، جواد و محسن در حیاط ایستاده‌اند. قدّ مهدی از همه بلندتر و جواد از همه کوتاه‌تر است. قدّ محسن بین قدّ حمید و جواد است. با رسم شکل مناسب، این ۴ نفر را از کوچک به بزرگ در یک صف نشان دهید.



CamScanner



CamScanner