12:53 PM Mon Nov 16
72%
هفتم جزوه ابوعلی سینا
Open in Books
Done

۳- در شکل های زیر علت همنهشتی را مشخص کنید و اجزای متناظر را بنویسید.

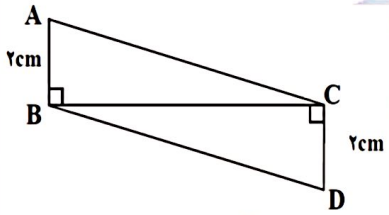

۴- با توجه به اندازه های داده شده دلیل هم نهشتی دو مثلث و سپس تساوی اجزای متناظر آن‌ها را بنویسید.

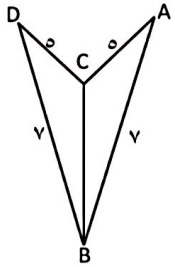

۵- درشکل زیر،دوشکل همنهشت هستند.اندازه ی x, y, z را محاسبه کنید.

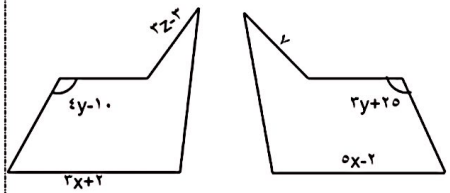

۶- در شکل زیر O وسط AB است.علت هم نهشتی دو مثلث را مشخص کنید و اجزای متناظر را بنویسید.

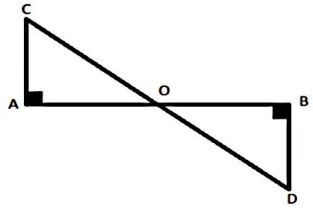

Scanned with CamScanner

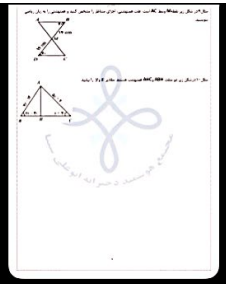



تمرین

۱-درشکل زیر o مرکز دایره است. علت همنهشتی، اجزای متناظر را مشخص کنید و همنهشتی را به زبان ریاضی بنویسید.

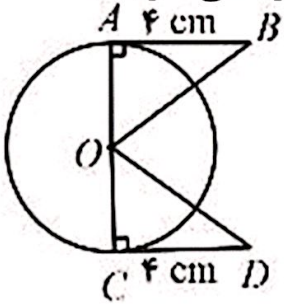

۲- اگر دو مثلث با یکدیگر همنهشت باشند مقادیر x و y را بیابید.

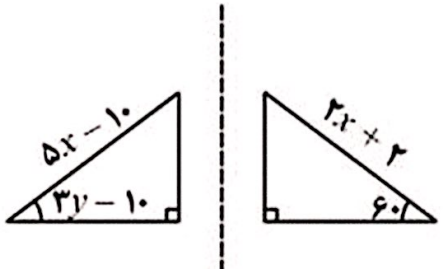

Scanned with CamScanner